Estudios Sociales y Cívica

Guía de autoaprendizaje

Material de apoyo para la continuidad educativa ante la emergencia COVID-19

Estudiantes 2.° año de bachillerato

Fase 2, semana 5: 11 al 15 de mayo

GOBIERNO DE EL SALVADOR

MINISTERIO DE EDUCACIÓN

Unidad 4. Las transformaciones económicas mundiales y los retos de El Salvador en el siglo XXI	Semana 5
Contenido	La consolidación de una economía de migrantes y remesas
Producción	Guía de preguntas sobre una economía de remesas (actividad 4 de esta guía)

Si quieres conocer más datos sobre las remesas, puedes consultar la Sexta Encuesta de Remesas Familiares 2018 en el sitio del BCR: https://bit.ly/2KtvUTd

A. Inicio

Actividad 1: Observa y reflexiona la siguiente información sobre la importancia de las remesas para la economía de El Salvador

Las remesas equivalen a más de 20% del PIB.

REDIBACEN
Fomentando la investigación económica

Remesas familiares recibidas en El Salvador
Montos y tasas de crecimiento

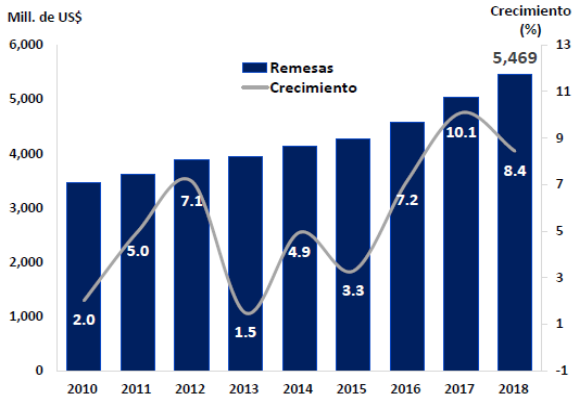

Fuente: Banco Central de Reserva de El Salvador

Fuente: Elaboración propia en base a estadísticas de BCR, DIGESTYC, Buró del Censo, e ISSS y a estimaciones de PIB, importaciones, exportaciones y gasto público 2018.

Puntos de apoyo

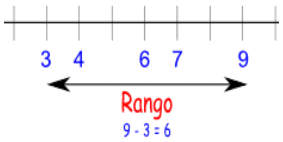

Regla de tres para encontrar el porcentaje:

Total de hogares: 100% (nacional)

Dato de hogares del dpto.: X

Ejemplo para San Salvador:

398,521 --------- 100%
72,603 --------- X

$X = \frac{72{,}603 \times 100}{398{,}521}$

X = 18.2 %

Respuesta 18%

B. Desarrollo

Actividad 2: Analiza el siguiente cuadro

Hogares receptores de remesas por tramos de remesa mensual recibida en dólares, según departamento en El Salvador

DEPARTAMENTO	TOTAL	TRAMOS DE REMESA MENSUAL RECIBIDA (DÓLARES)										
		MENOS DE $46	$46 - $113	$114 - $170	$171 - $228	$229 - $285	$286 - $342	$343 - $456	$457 - $570	$571 - $685	$686 - $799	$800 Y MÁS
TOTAL (hogares) Nacional	398,521	54,504	103,449	46,442	69,893	17,917	40,370	34,925	15,163	7,980	2,808	5,070
AHUACHAPÁN	13,412	2,097	3,977	761	2,598	621	878	1,251	782	251	71	125
SANTA ANA	37,261	3,360	10,776	3,825	8,071	972	3,768	3,759	898	1,247	25	560
SONSONATE	19,206	3,001	4,920	3,079	2,878	189	2,176	1,842	406	401	114	200
CHALATENANGO	20,298	3,146	5,329	3,456	3,789	1,339	1,230	842	430	464	-	273
LA LIBERTAD	42,405	7,287	12,951	4,874	6,247	2,622	2,978	2,865	1,037	742	336	466
SAN SALVADOR	72,603	12,248	17,751	8,502	10,335	2,239	8,950	5,793	3,182	1,620	881	1,102
CUSCATLÁN	11,819	2,580	3,454	920	2,208	282	846	933	405	154	-	37
LA PAZ	17,038	2,847	3,903	1,506	3,727	835	2,542	894	656	-	128	-
CABAÑAS	17,021	1,074	4,672	1,895	3,553	845	1,917	1,706	598	344	202	215
SAN VICENTE	16,159	2,907	4,370	1,882	2,377	858	1,474	1,213	629	212	-	237
USULUTÁN	34,167	2,448	7,922	3,901	7,549	843	4,001	4,099	2,054	834	335	181
SAN MIGUEL	44,519	5,126	9,477	6,598	7,335	3,486	4,133	4,497	1,977	868	252	770
MORAZÁN	17,314	1,890	4,738	1,807	3,975	867	1,471	1,483	558	260	58	207
LA UNIÓN	35,299	4,493	9,209	3,436	5,251	1,919	4,006	3,748	1,551	583	406	697

Fuente: DIGESTYC, 2019.

- Identifica el rango de dinero que percibe en remesas el departamento en el que vives. Señálalo. ¿Qué porcentaje del total de hogares a nivel nacional que reciben remesas representa el departamento en que vives?
- Ordena los departamentos de mayor a menor en términos de la cantidad de hogares receptores de remesa. ¿Cuáles son los tres primeros departamentos? A partir de esta información, completa la siguiente frase: "**De cada 10 hogares** que reciben remesas en El Salvador, _____ hogares (*de 10, ¿cuántos hogares?*) están en los departamentos de _____, _____ y en _____".
- Ahora, determina a nivel nacional cuál es el rango de dinero donde hay más hogares recibiendo remesas. Coloca el rango, número de hogares y el porcentaje del total.

C. Cierre

Actividad 3: Observa el siguiente gráfico, en él encontrarás en qué se gastan las remesas

Gráfico 35. Hogares receptores de remesas, según destino de la remesa mensual recibida

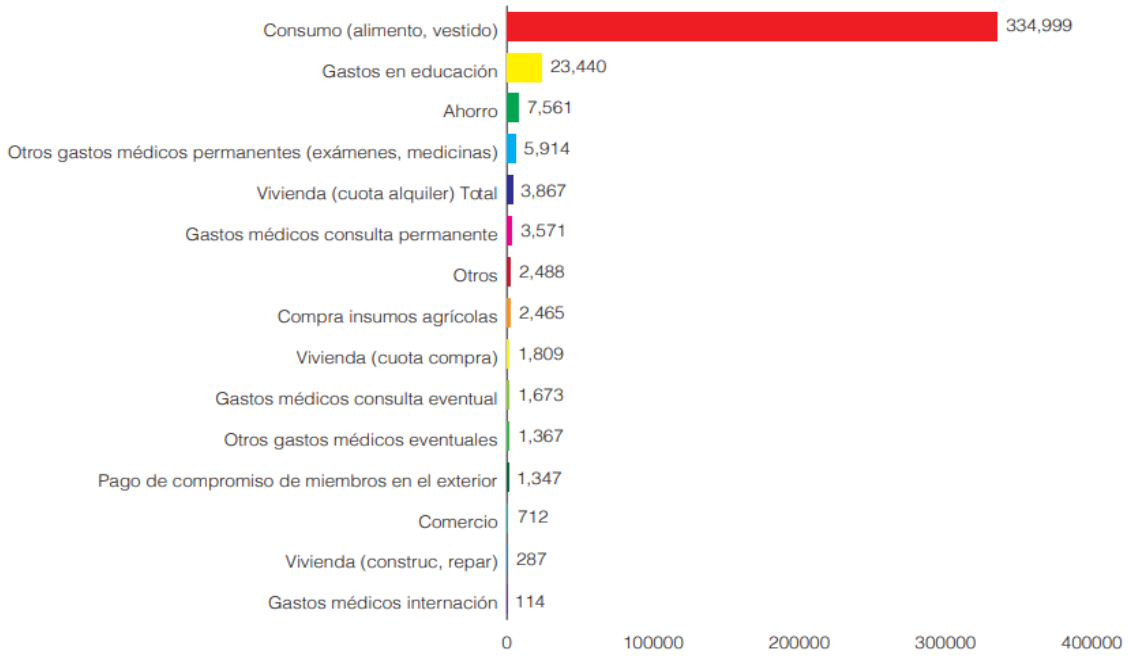

Fuente: El perfil de la persona consumidora, 2017.

Actividad 4: Guía de preguntas

A partir la información anterior, reflexiona y responde:

- ¿En qué gastan las remesas mayormente los hogares?
- Pregunta a tus padres y amigos: ¿por qué este gasto se distribuye así?
- ¿Consideras que el gasto podría ser distinto? Explica.
- ¿Consideras que las remesas se verán afectadas por la pandemia de COVID- 19? Explica.

Si puedes, tómale una fotografía a la guía de preguntas y envíasela a tu docente.

MINISTERIO
DE EDUCACIÓN